EĞLENCELİ MATEMATİK

Her katın toplamı apartman numarasını veriyor. Verilmeyen numaraları bulunuz.

		21							
28	8	11		23	25	19			4
	19		15	34			21		23
11			19	15		33	2	12	32

Verilen sayıdan başlayarak ok yönünde işlemleri yapın ve verilmeyen sayıları bulun.

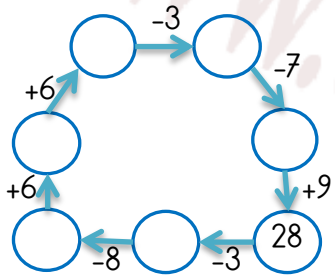

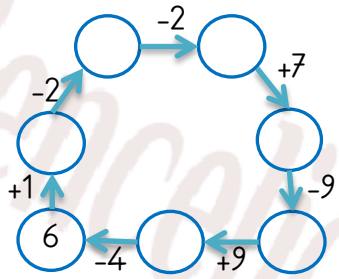

EĞLENCELİ MATEMATİK

Her katın toplamı apartman numarasını veriyor. Verilmeyen numaraları bulunuz.

37				20		23			
28		2		2		6		7	3
	8	4	17	13		18			6
19		9		17		13		9	

Verilen sayıdan başlayarak ok yönünde işlemleri yapın ve verilmeyen sayıları bulun.

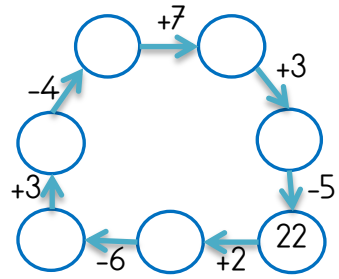

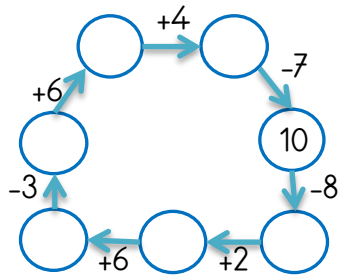

EĞLENCELİ MATEMATİK

Her katın toplamı apartman numarasını veriyor. Verilmeyen numaraları bulunuz.

		25		46					
	23	1		12		2	13	1	
17			11	33		7		2	10
26	11	23		16			11	6	

Verilen sayıdan başlayarak ok yönünde işlemleri yapın ve verilmeyen sayıları bulun.

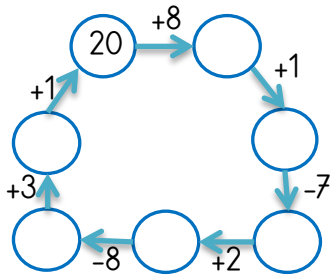

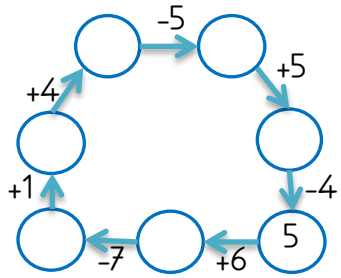

EĞLENCELİ MATEMATİK

Her katın toplamı apartman numarasını veriyor. Verilmeyen numaraları bulunuz.

31				42		23			
	29		10	39		10			2
15		18		25			6	4	7
	1	16	32		16	22			10

Verilen sayıdan başlayarak ok yönünde işlemleri yapın ve verilmeyen sayıları bulun.

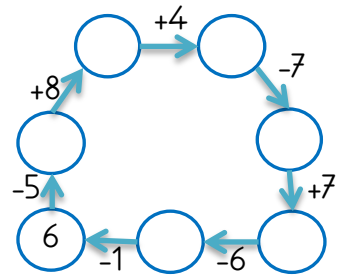

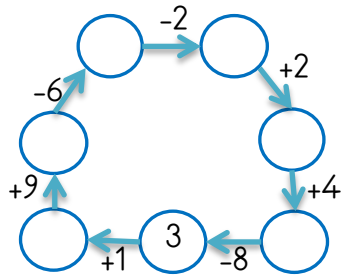

www.eglencecalismalar.com