EĞLENCELİ MATEMATİK

Her katın toplamı apartman numarasını veriyor. Verilmeyen numaraları bulunuz.

8	3	
	1	1
2	10	1

	4	7
2	6	4
7	3	

15	2	
	8	1
4	13	1

12		5
	3	7
2	16	2

Verilen sayıdan başlayarak ok yönünde işlemleri yapın ve verilmeyen sayıları bulun.

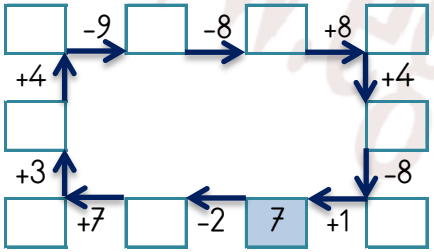

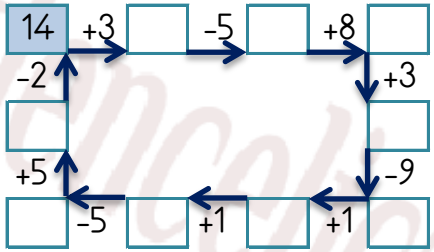

EĞLENCELİ MATEMATİK

Her katın toplamı apartman numarasını veriyor. Verilmeyen numaraları bulunuz.

15	4	
17	4	2
	8	9

	15	
8		4
4		9
5	4	

	10	
4	2	
	4	3
	4	5

	13	
9	2	
	4	1
2		3

Verilen sayıdan başlayarak ok yönünde işlemleri yapın ve verilmeyen sayıları bulun.

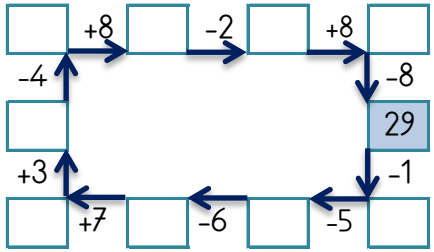

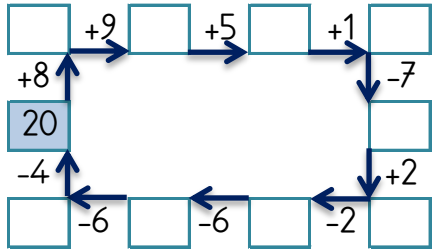

EĞLENCELİ MATEMATİK

Her katın toplamı apartman numarasını veriyor. Verilmeyen numaraları bulunuz.

	5	19
1	8	18
12	11	

	24	
	5	18
	3	6
	3	18

9	6	2
	3	4
1	12	

5	6	11
	15	2
1		19

Verilen sayıdan başlayarak ok yönünde işlemleri yapın ve verilmeyen sayıları bulun.

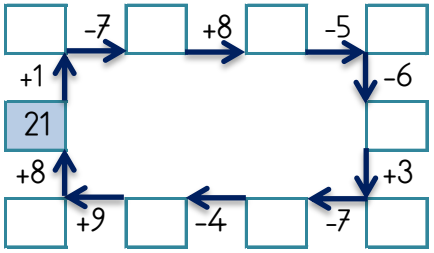

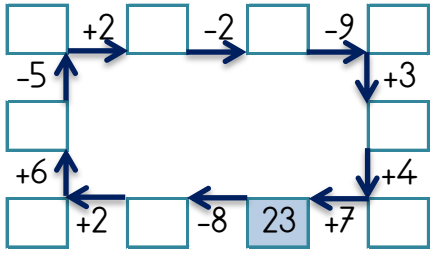

EĞLENCELİ MATEMATİK

Her katın toplamı apartman numarasını veriyor. Verilmeyen numaraları bulunuz.

	27	
	12	3
10		14
6	2	

	23	
	2	1
	17	3
	19	2

	12	
3		8
3	5	
2		4

2	2	6
6	1	
	4	1

Verilen sayıdan başlayarak ok yönünde işlemleri yapın ve verilmeyen sayıları bulun.

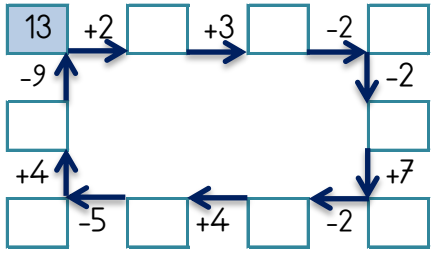

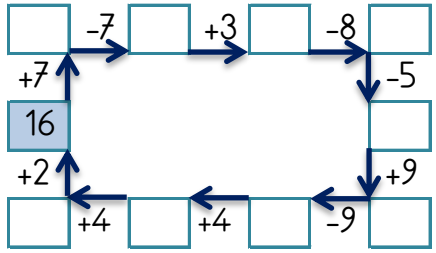

www.eğlencelicalismalar.com